ВЫПОЛНЕНИЕ СЛОЖЕНИЯ И ВЫЧИТАНИЯ

№	Задание	Баллы
1	Вычислите: 3 ц 6 кг + 2 ц 9 кг	1
2	Найдите значение выражения 2020.06.01	1
3	Вычислите: 8 т 3 ц − 6 т 7 ц	1
4	Найдите значение выражения 2020.06.04 и запишите его в виде десятичной дроби.	1
5	Вычислите: 2020.06.05	1

ВЫЧИСЛИТЕЛЬНЫЕ ЗАДАНИЯ С ПРОСТЫМИ ДРОБЯМИ

№	Задание	Баллы
1	1500 × 1000 × 1000 − 80/100 − 02,7	4
2	1500×500×1000 − 80/100 − 02,7	12
3	2000×1000×1000 − 80/100 − 02,7	72
4	2000×500×1000 − 80/100 − 02,7	6
5	1000×1000×100 − 80/100 − 02,7	30
6	Найдите значение выражения 2020.06.02.	4
7	Вычислите: 2020.06.03. В ответе запишите десятичную дробь.	4
8	Найдите значение выражения 2020.06.04 и округлите результат до сотых.	4
9	Вычислите: 2020.06.05	4
10	Вычислите: 2020.06.06	4
11	Вычислите: 2020.06.07	4

ВЫЧИСЛЕНИЕ ОБЪЁМА ПРЯМОУГОЛЬНОГО ПАРАЛЛЕЛЕПИПЕДА

№	Задание	Баллы
1	Найдите объём прямоугольного параллелепипеда, если его измерения равны 15 см, 10 см и 10 см.	1
2	Найдите объём прямоугольного параллелепипеда, если его измерения равны 15 см, 5 см и 10 см.	1
3	Найдите объём прямоугольного параллелепипеда, если его измерения равны 20 см, 10 см и 10 см.	1
4	Найдите объём прямоугольного параллелепипеда, если его измерения равны 10 см, 5 см и 10 см.	1
5	Найдите объём прямоугольного параллелепипеда, если его измерения равны 10 см, 10 см и 10 см.	1
6	Найдите объём прямоугольного параллелепипеда, если его измерения равны 130 см, 65 см и 80 см.	1

Объём прямоугольного параллелепипеда можно вычислить по формуле $V = A \times B \times H$.

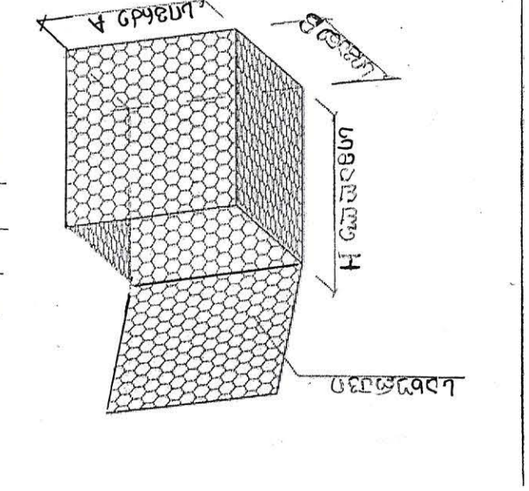

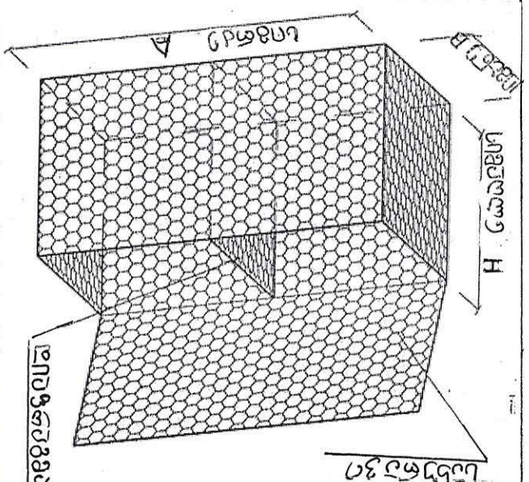

ВЫЧИСЛЕНИЕ ОБЪЁМА ПРЯМОУГОЛЬНОГО ПАРАЛЛЕЛЕПИПЕДА

№	Задание	Баллы
1	Найдите объём прямоугольного параллелепипеда, если его измерения равны 15 см, 10 см и 10 см.	1
2	Найдите объём прямоугольного параллелепипеда, если его измерения равны 15 см, 5 см и 10 см.	1
3	Найдите объём прямоугольного параллелепипеда, если его измерения равны 20 см, 10 см и 10 см.	1
4	Найдите объём прямоугольного параллелепипеда, если его измерения равны 10 см, 5 см и 10 см.	1
5	Найдите объём прямоугольного параллелепипеда, если его измерения равны 10 см, 10 см и 10 см.	1
6	Найдите объём прямоугольного параллелепипеда, если его измерения равны 130 см, 65 см и 80 см.	1

Объём прямоугольного параллелепипеда можно вычислить по формуле $V = A \times B \times H$.

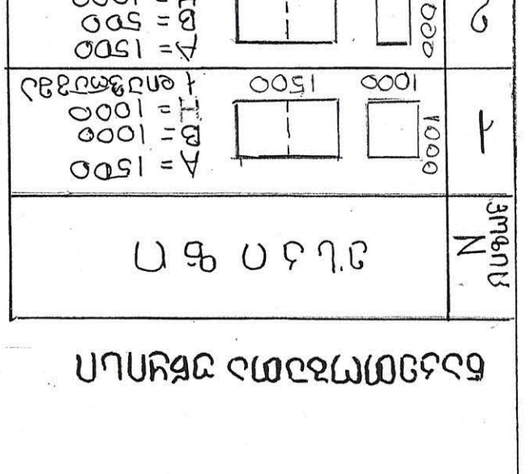

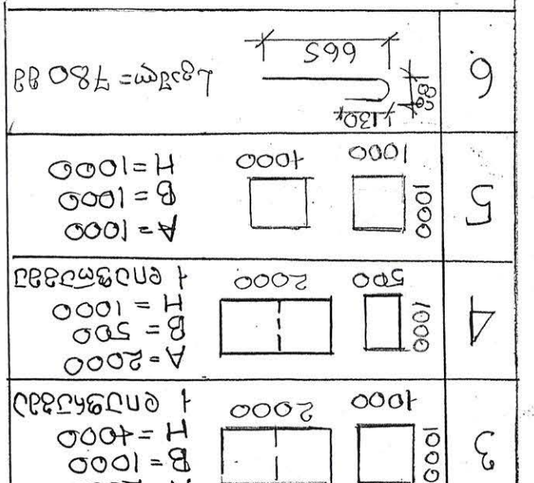

ВЫЧИСЛЕНИЕ ОБЪЁМА ПРЯМОУГОЛЬНОГО ПАРАЛЛЕЛЕПИПЕДА

№	Задание	Баллы
1	Найдите объём прямоугольного параллелепипеда, если его измерения равны 15 см, 10 см и 10 см.	1
2	Найдите объём прямоугольного параллелепипеда, если его измерения равны 15 см, 5 см и 10 см.	1
3	Найдите объём прямоугольного параллелепипеда, если его измерения равны 20 см, 10 см и 10 см.	1
4	Найдите объём прямоугольного параллелепипеда, если его измерения равны 10 см, 5 см и 10 см.	1
5	Найдите объём прямоугольного параллелепипеда, если его измерения равны 10 см, 10 см и 10 см.	1
6	Найдите объём прямоугольного параллелепипеда, если его измерения равны 130 см, 65 см и 80 см.	1

Объём прямоугольного параллелепипеда можно вычислить по формуле $V = A \times B \times H$.

ВЫЧИСЛЕНИЕ ОБЪЁМА ПРЯМОУГОЛЬНОГО ПАРАЛЛЕЛЕПИПЕДА

№	Задание	Баллы
1	Найдите объём прямоугольного параллелепипеда, если его измерения равны 15 см, 10 см и 10 см.	1
2	Найдите объём прямоугольного параллелепипеда, если его измерения равны 15 см, 5 см и 10 см.	1
3	Найдите объём прямоугольного параллелепипеда, если его измерения равны 20 см, 10 см и 10 см.	1
4	Найдите объём прямоугольного параллелепипеда, если его измерения равны 10 см, 5 см и 10 см.	1
5	Найдите объём прямоугольного параллелепипеда, если его измерения равны 10 см, 10 см и 10 см.	1
6	Найдите объём прямоугольного параллелепипеда, если его измерения равны 130 см, 65 см и 80 см.	1

Объём прямоугольного параллелепипеда можно вычислить по формуле $V = A \times B \times H$.

ВЫЧИСЛЕНИЕ ОБЪЁМА ПРЯМОУГОЛЬНОГО ПАРАЛЛЕЛЕПИПЕДА

№	Задание	Баллы
1	Найдите объём прямоугольного параллелепипеда, если его измерения равны 15 см, 10 см и 10 см.	1
2	Найдите объём прямоугольного параллелепипеда, если его измерения равны 15 см, 5 см и 10 см.	1
3	Найдите объём прямоугольного параллелепипеда, если его измерения равны 20 см, 10 см и 10 см.	1
4	Найдите объём прямоугольного параллелепипеда, если его измерения равны 10 см, 5 см и 10 см.	1
5	Найдите объём прямоугольного параллелепипеда, если его измерения равны 10 см, 10 см и 10 см.	1
6	Найдите объём прямоугольного параллелепипеда, если его измерения равны 130 см, 65 см и 80 см.	1

Объём прямоугольного параллелепипеда можно вычислить по формуле $V = A \times B \times H$.

ВЫЧИСЛЕНИЕ ОБЪЁМА ПРЯМОУГОЛЬНОГО ПАРАЛЛЕЛЕПИПЕДА

№	Задание	Баллы
1	Найдите объём прямоугольного параллелепипеда, если его измерения равны 15 см, 10 см и 10 см.	1
2	Найдите объём прямоугольного параллелепипеда, если его измерения равны 15 см, 5 см и 10 см.	1
3	Найдите объём прямоугольного параллелепипеда, если его измерения равны 20 см, 10 см и 10 см.	1
4	Найдите объём прямоугольного параллелепипеда, если его измерения равны 10 см, 5 см и 10 см.	1
5	Найдите объём прямоугольного параллелепипеда, если его измерения равны 10 см, 10 см и 10 см.	1
6	Найдите объём прямоугольного параллелепипеда, если его измерения равны 130 см, 65 см и 80 см.	1

Объём прямоугольного параллелепипеда можно вычислить по формуле $V = A \times B \times H$.

ВЫЧИСЛЕНИЕ ОБЪЁМА ПРЯМОУГОЛЬНОГО ПАРАЛЛЕЛЕПИПЕДА

№	Задание	Баллы
1	Найдите объём прямоугольного параллелепипеда, если его измерения равны 15 см, 10 см и 10 см.	1
2	Найдите объём прямоугольного параллелепипеда, если его измерения равны 15 см, 5 см и 10 см.	1
3	Найдите объём прямоугольного параллелепипеда, если его измерения равны 20 см, 10 см и 10 см.	1
4	Найдите объём прямоугольного параллелепипеда, если его измерения равны 10 см, 5 см и 10 см.	1
5	Найдите объём прямоугольного параллелепипеда, если его измерения равны 10 см, 10 см и 10 см.	1
6	Найдите объём прямоугольного параллелепипеда, если его измерения равны 130 см, 65 см и 80 см.	1

Объём прямоугольного параллелепипеда можно вычислить по формуле $V = A \times B \times H$.

ВЫЧИСЛЕНИЕ ОБЪЁМА ПРЯМОУГОЛЬНОГО ПАРАЛЛЕЛЕПИПЕДА

№	Задание	Баллы
1	Найдите объём прямоугольного параллелепипеда, если его измерения равны 15 см, 10 см и 10 см.	1
2	Найдите объём прямоугольного параллелепипеда, если его измерения равны 15 см, 5 см и 10 см.	1
3	Найдите объём прямоугольного параллелепипеда, если его измерения равны 20 см, 10 см и 10 см.	1
4	Найдите объём прямоугольного параллелепипеда, если его измерения равны 10 см, 5 см и 10 см.	1
5	Найдите объём прямоугольного параллелепипеда, если его измерения равны 10 см, 10 см и 10 см.	1
6	Найдите объём прямоугольного параллелепипеда, если его измерения равны 130 см, 65 см и 80 см.	1

Объём прямоугольного параллелепипеда можно вычислить по формуле $V = A \times B \times H$.

N59 სადგურების ფუნდამენტების გეგმა

მასშტაბი 1:200

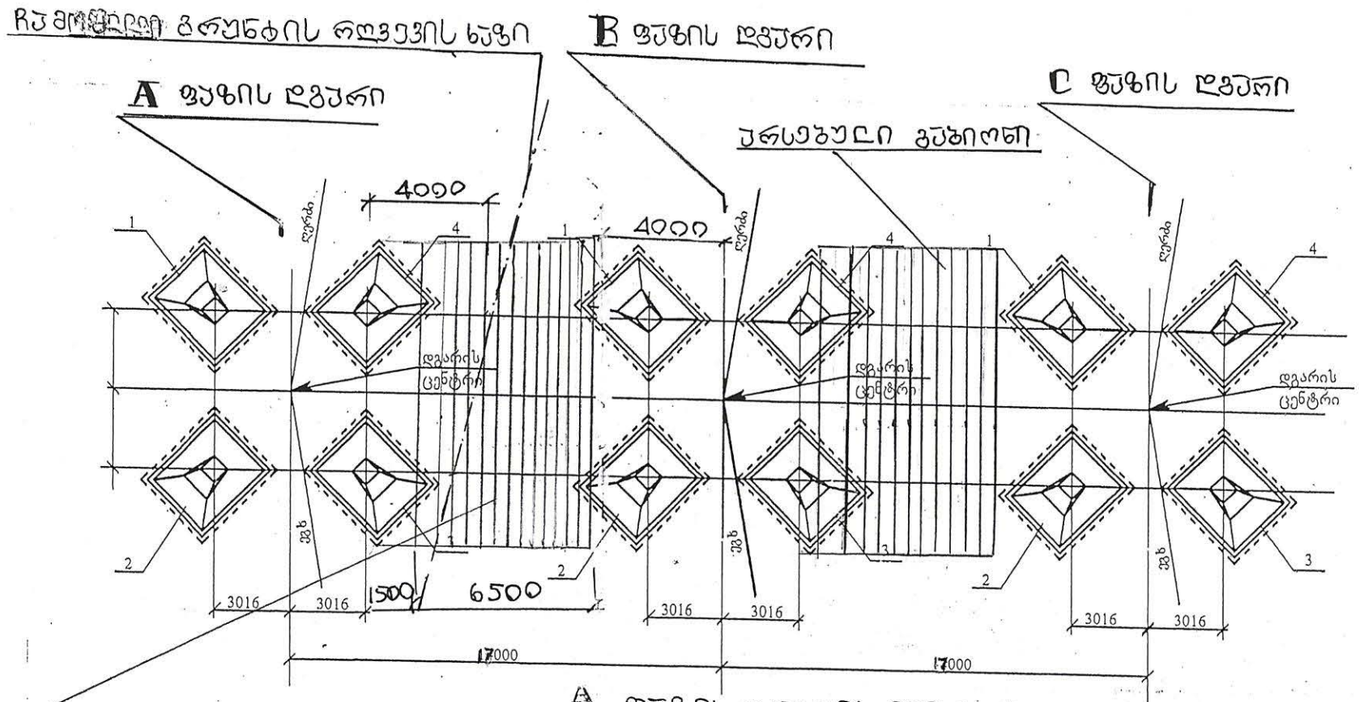

A ფეხის დგარის ფუნდამენტების გეგმა

მ 1:125

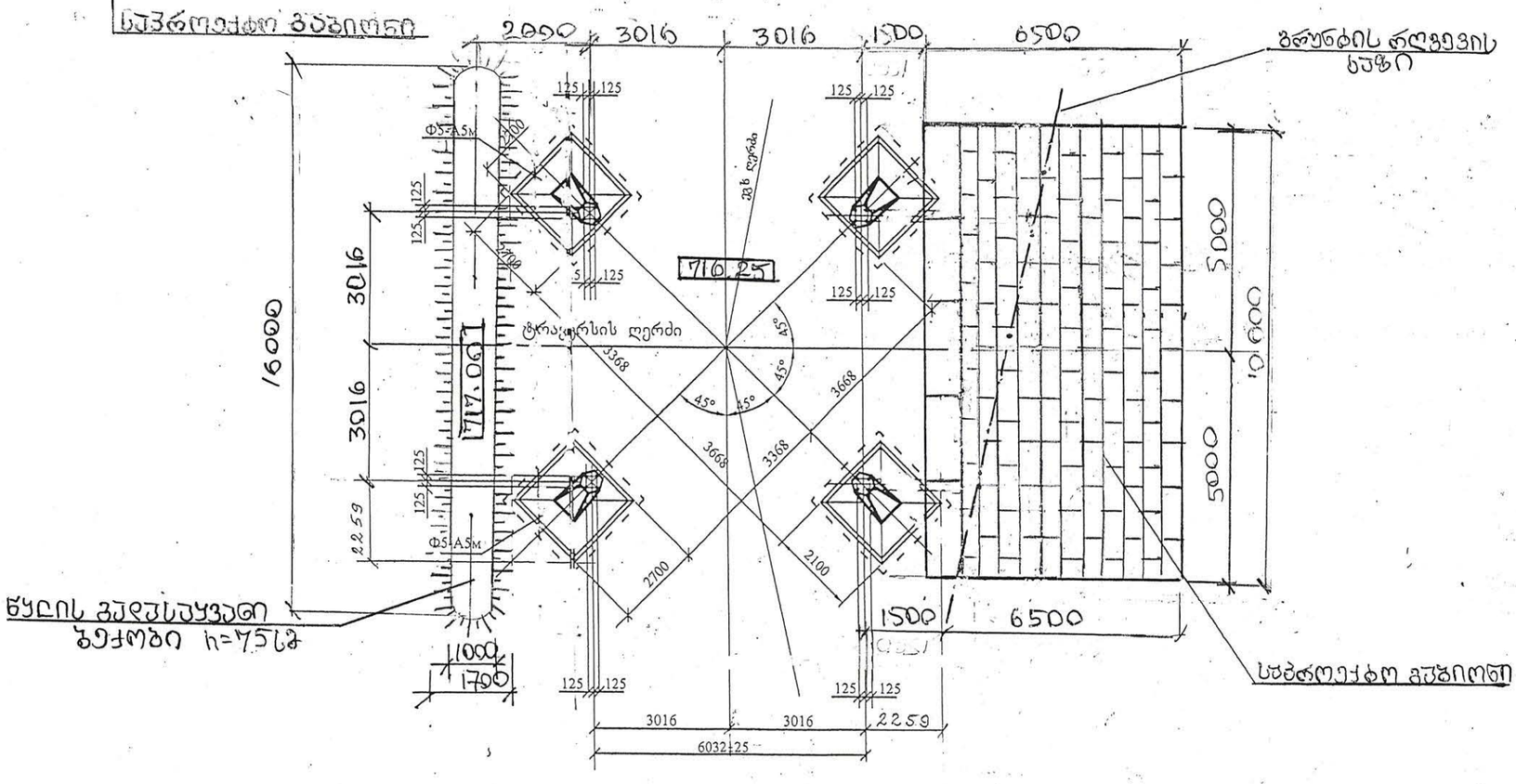

					2020.06.02
					500 კვ. ეგხ. «ვაკესაკავშირის» N59 სადგურების A ფეხის დგარის ფუნდამენტების გეგმა-გებირით
ცვლ.	ფურც.	დოკუმენტის №№	ხელმოწ.	თარ.	N59 სადგურების ფუნდამენტების გეგმა-გებირის გეგმა
შემსრულ.	გიორგაძე				
დამტკიც.	გიორგაძე				
					ს/ლ | ფურც. | ფურცლ: 1
					ფუნდამენტების გეგმა, (A ფეხი)
					შპს «ვაკესაკავშირი»

N59 სპორტული A ფარის დეტალი

ფუნდამენტის კვეთი

მასშტაბი 1:50

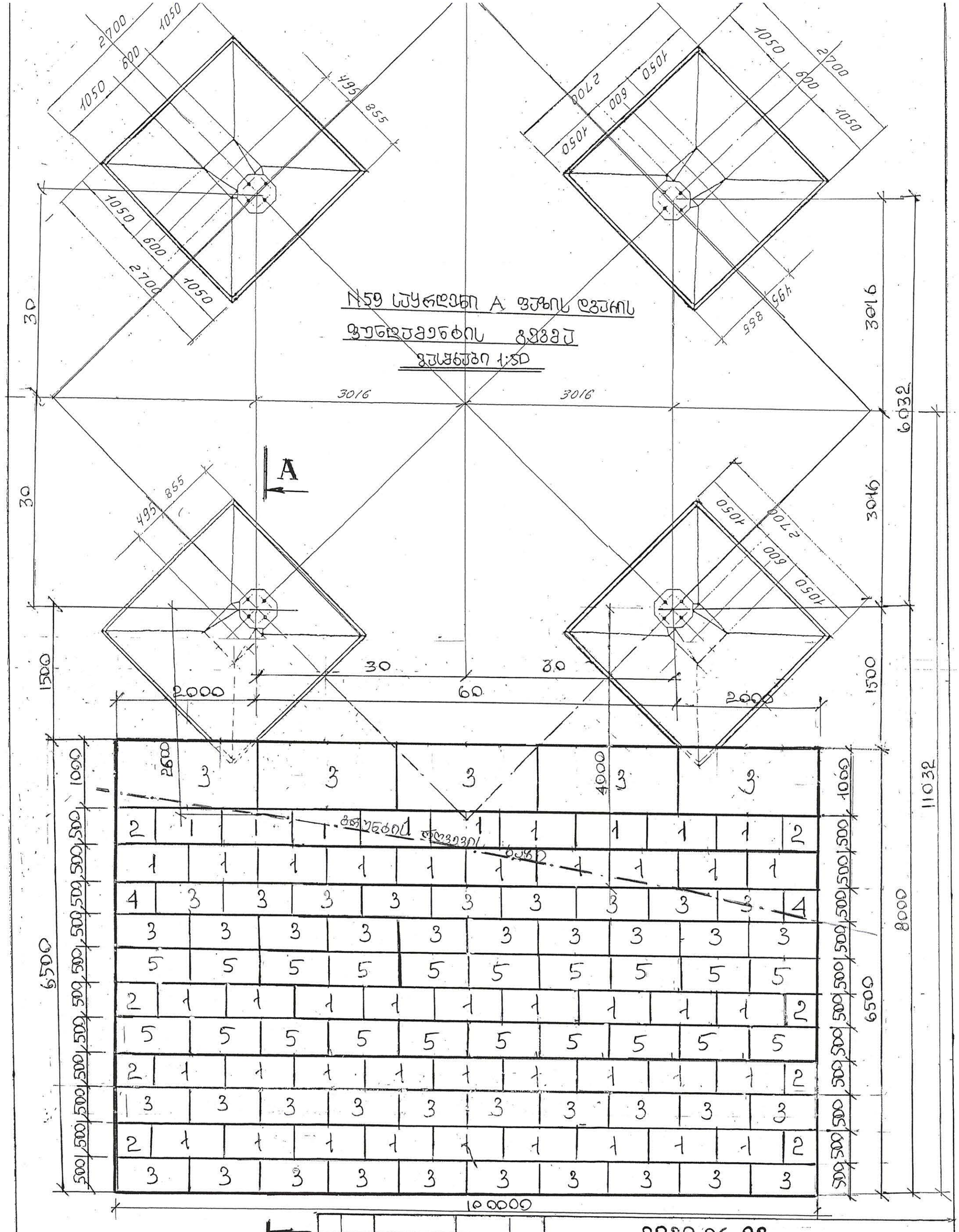

ცვლილების N	ფურცლების რაოდენობა	ხელმოწერა	თარიღი	
დამტკიცებულია				
შემსრულებელი				

2020.06.03

500 კვ. 986 «ავტომაგისტრალის» N59 სპორტული A ფარის დეტალის ფუნდამენტების მუშაობისას ბეტონირება

ფარის დეტალის ფუნდამენტი	ლიტერა	ფურცელი	ფურცელი
ტიპური პროექტი			1
	სმ		
მუშაობის მიხედვით ფუნდამენტი ტიპიური	«ავტომაგისტრალი»		

A-A

მასშტაბი 1:50

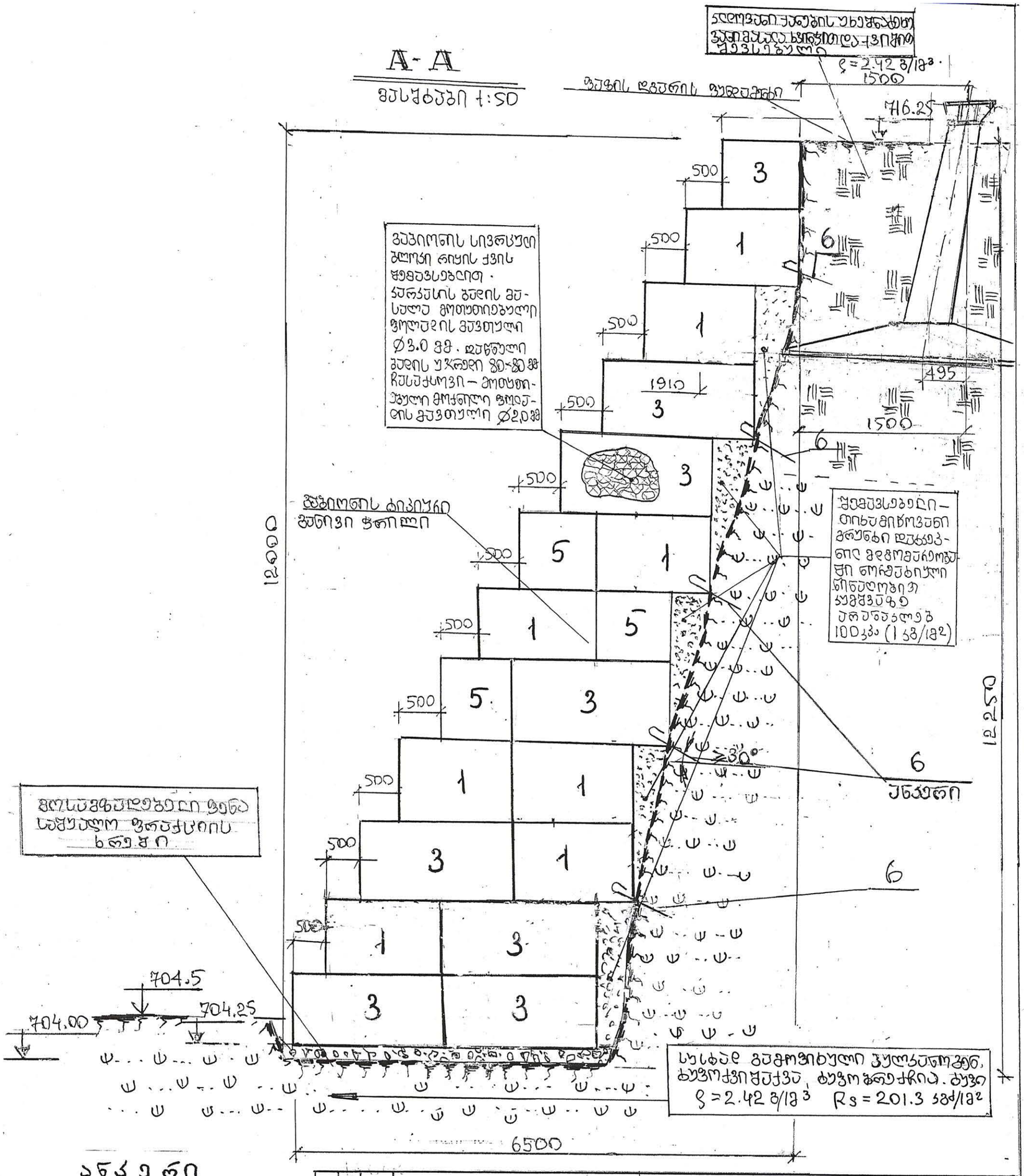

ანკერი

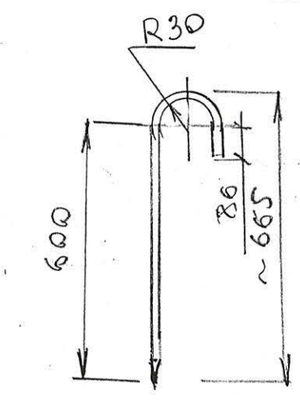

ზომა	ცვლა	№	ცვლილების შინაარსი	ხელმოწერა	თარიღი
		6	2020.06.010		

დასახელება	ტონა	შენიშვნა
ლოკალური		
ანკერი		
Ø14-AIII ГОСТ5781-82		
ℓ = 780 მმ	100	

2019.06.04

500 კვ ვმზ «კავკასიონის» N 59 სადგურთან A ფაზის დგარის ფუნდამენტების მშენებლობა

დამტკიცებული	ფურც.	ფურცელ.
		1

A-A კვეთი

სს მესს «სეტყვისგანრეზერვი»

ტიპიური ფასადის ელემენტების სპეციფიკაცია
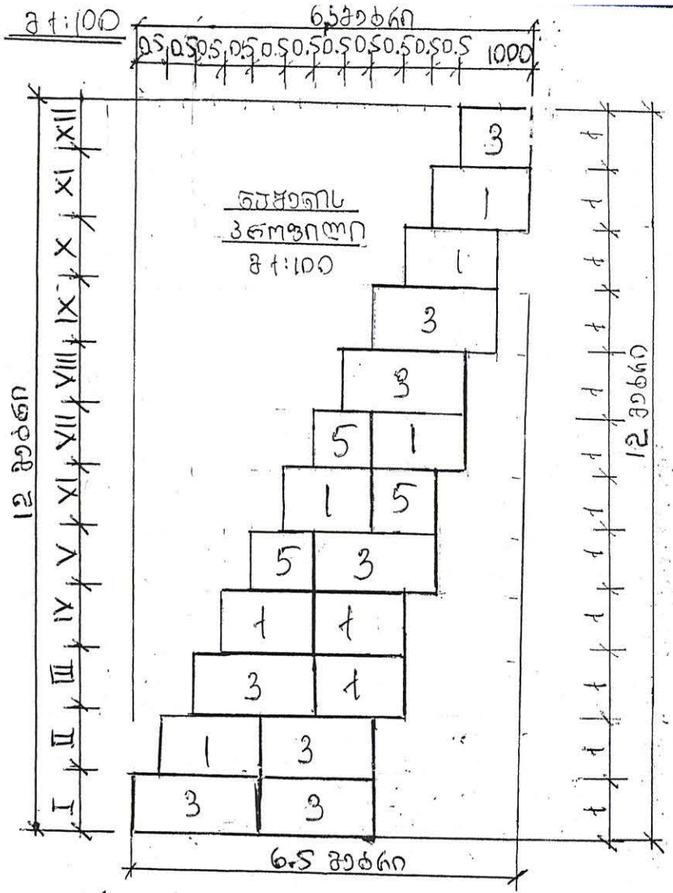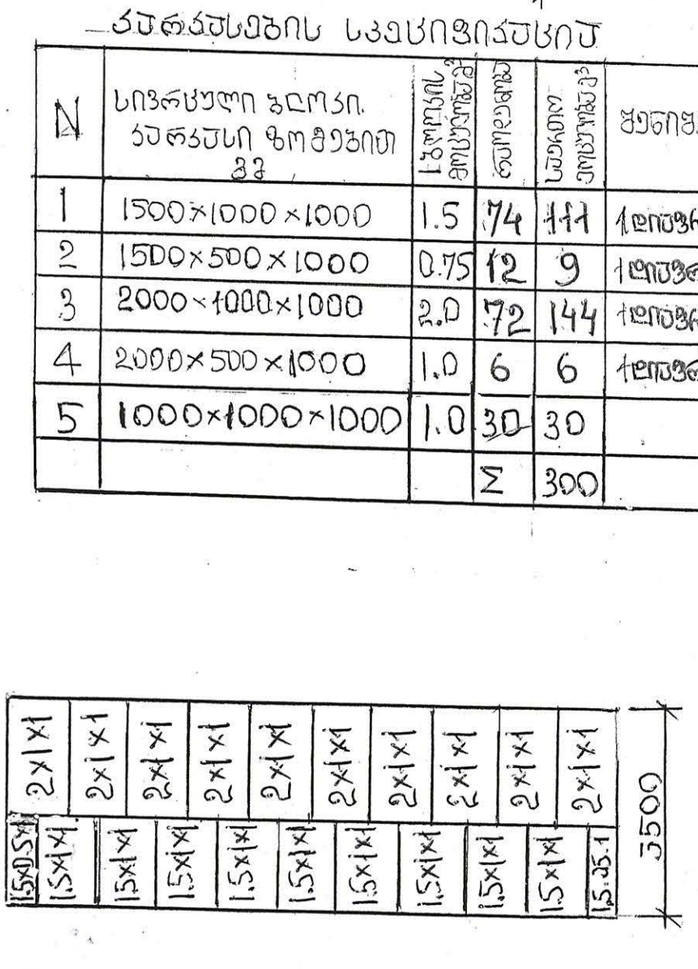
N	სიმრავლის დასრულებული ელემენტის დასახელება და ზომები მმ	ერთეულის მოცულობა მ³	ელემენტების რაოდენობა	საერთო მოცულობა მ³	შენიშვნა
1	1500×1000×1000	1.5	74	111	1 ელემენტისგან
2	1500×500×1000	0.75	12	9	1 ელემენტისგან
3	2000×1000×1000	2.0	72	144	1 ელემენტისგან
4	2000×500×1000	1.0	6	6	1 ელემენტისგან
5	1000×1000×1000	1.0	30	30	
			Σ	300